CLASSE 3 NOME …….. COGNOME ……
DATA: ……..

VERIFICA

1. **Completa ciascuna frase con i termini:** *parallele, incidenti, perpendicolari*

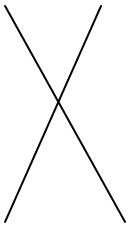

Queste rette sono ……

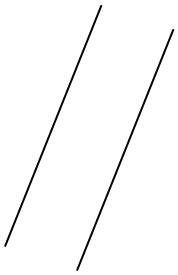

Queste rette sono ……

Queste rette sono ……..

2. **Disegna due rette incidenti a quella data**

3. **Disegna una retta perpendicolare a quella data**

CLASSE 3 NOME …….. COGNOME ……

4. Colora di nero il vertice, di rosso i lati e di verde l'ampiezza degli angoli: confronta poi questi angoli con l'angolo campione e classificali nella tabella

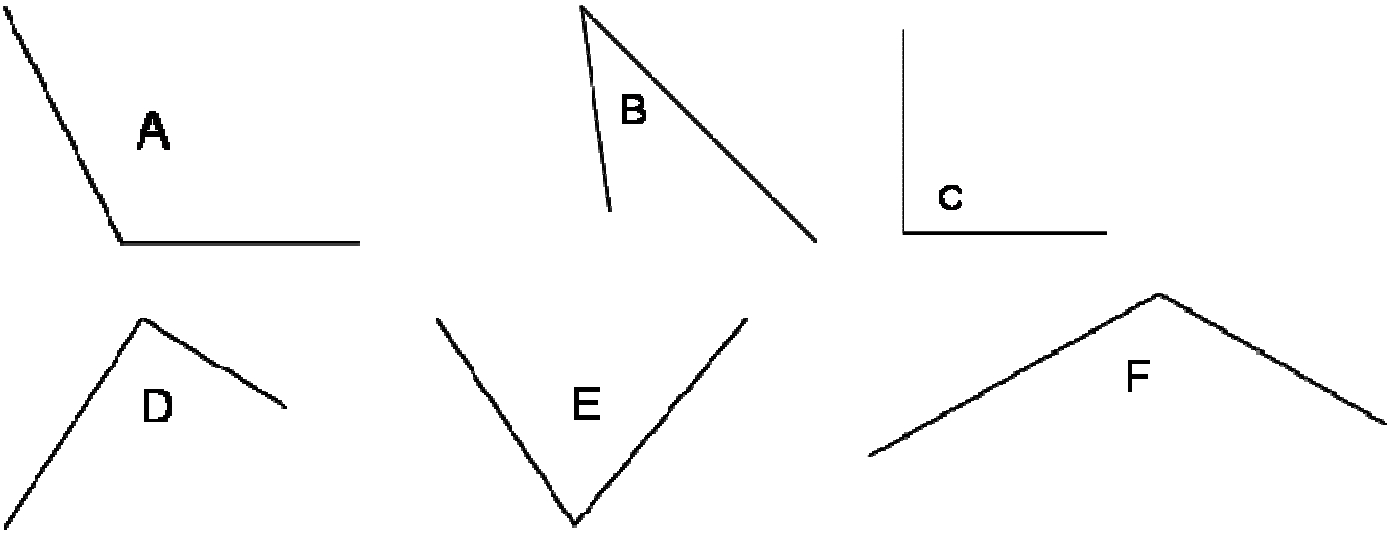

	retto	**acuto**	**ottuso**
A			
B			
C			
D			
E			
F			

5. Usando il tuo misuratore disegna un angolo acuto, uno ottuso, uno retto

OBIETTIVI DELLA VERIFICA

- Riconoscere rette incidenti, parallele, perpendicolari
- Riconoscere i diversi tipi di angolo
- Denominare e descrivere rette incidenti, parallele, perpendicolari
- Denominare e descrivere i diversi tipi di angolo

PUNTI: …….. su 25 **VOTO: …….**

FIRMA INSEGNANTE: ……

FIRMA GENITORE: ……..

ATTRIBUZIONE PUNTEGGIO E LEGENDA VOTI

Esercizio 1	**3** (1 punto per ogni termine corretto)	**Punteggio e voti:** minore o uguale a 14 = **5** da 15 a 17 = **6** da 18 a 19 = **7** da 20 a 21 = **8** da 22 a 23 = **9** da 24 a 25 = **10**
Esercizio 2	**2** (1 punto per ogni retta disegnata)	
Esercizio 3	**2** (2 punti per l'esecuzione corretta)	
Esercizio 4	**12** punti per l'esecuzione corretta dell'esercizio (2 punti per ogni figura)	
Esercizio 5	**6** (2 punti per ogni angolo correttamente raffigurato)	

TABULAZIONE VERIFICA

N° prove	**1**	**2**	**3**	**4**	**5**	**Totale**	**VOTO**
Punti	3	2	2	12	6	**25**	
ALUNNI							