Distribuisci o raggruppa

Distribuisci in parti uguali a 5 bambini

Numero caramelle: …….
Numero bambini: ……
Caramelle ad ogni bambino: …….. quindi 15 : …… = ……

Distribuisci in parti uguali nei 3 parcheggi



Numero automobiline: …….
Numero parcheggi: ……
Automobiline in ogni parcheggio: ……. quindi …….. : …… = ……

Raggruppa i gettoni per 4



Numero gettoni: ……
Numero gettoni in ogni gruppo: …….
Numero gruppi formati: ……. quindi …… : …….. = ……...

Raggruppa le conchiglie per 7



Numero conchiglie: ……
Numero conchiglie in ogni gruppo: …….
Numero gruppi formati: ……. quindi …… : …….. = ……...