Osservate le seguenti figure ed indicate, nell'apposito spazio, quale unità frazionaria della rispettiva grandezza (triangolo, cerchio, ecc.) rappresenta ciascuna parte colorata:



Frazioni come operatori su grandezze

• Completa.

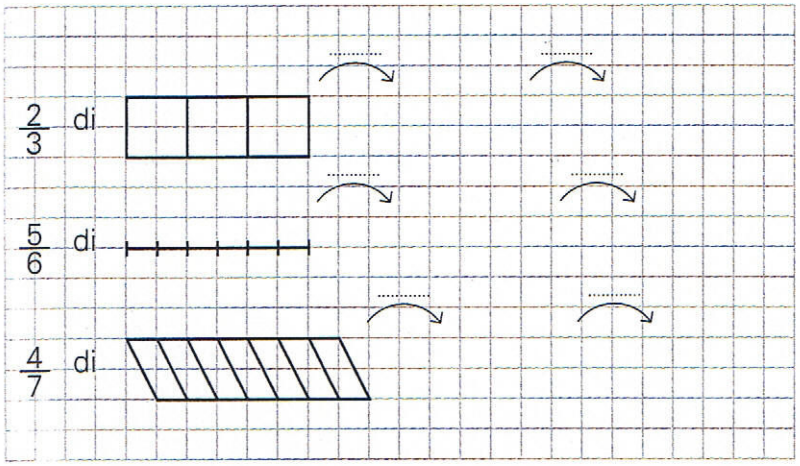

Colora le frazioni indicate.

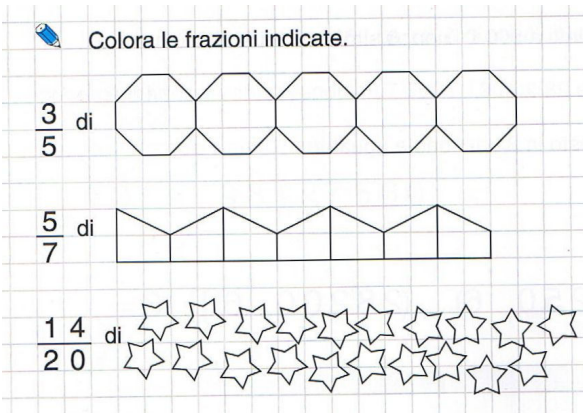

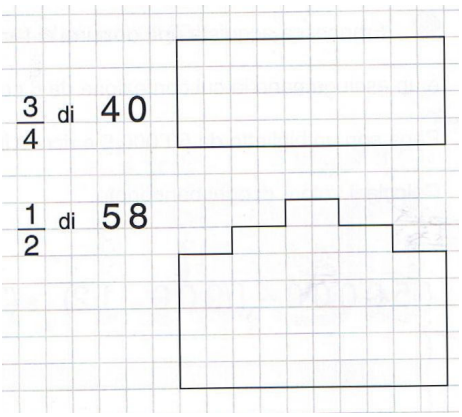

Indicate a quale frazione corrisponde la parte colorata in ciascuno dei seguenti rettangoli:

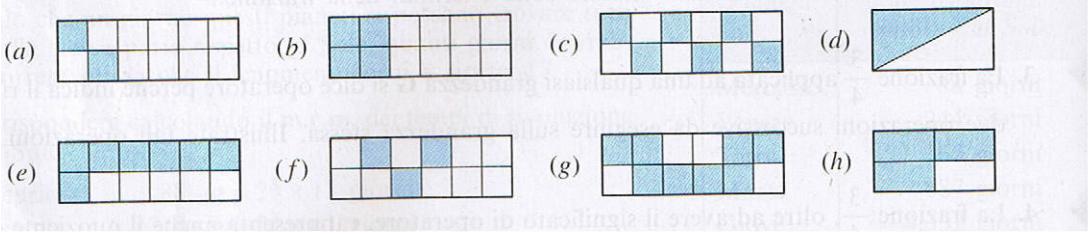

Compilate la seguente tabella:

Frazione	5/7	8/9	11/12	9/24	7/32	8/39	10/49	7/60	19/80
Numeratore									
Denominatore									
Unità frazionaria									
Numero delle unità frazionarie considerate									

Scrivi sotto forma di frazione

sette ottavi	——	un decimo	——
cinque settimi	——	sei centesimi	——
otto quindicesimi	——	nove settimi	——
sei ventiduesimi	——	quarantasei ottavi	——
un settimo	——	sei ventiquattresimi	——
tre ottavi	——	diciannove ventesimi	——
un sesto	——	ventisei noni	——