Osserva questa figura

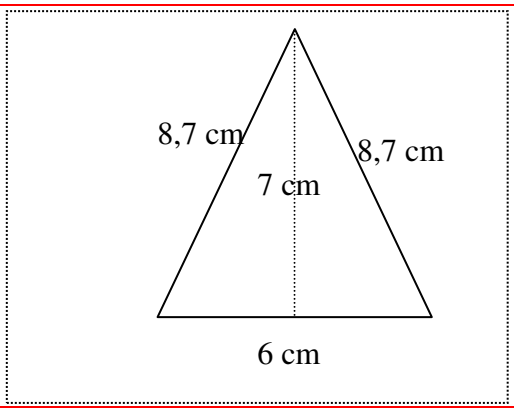

E' un triangolo ……

Base = _____ cm

Altezza = _____ cm

Lato obliquo = _____ cm

Calcola il perimetro del triangolo:

Calcola l'area del triangolo:

Osserva queste figure

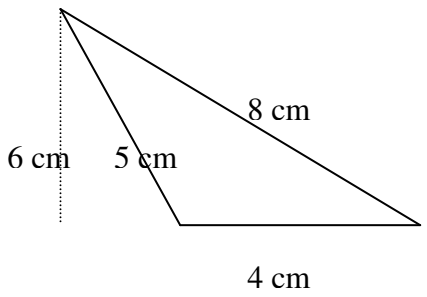

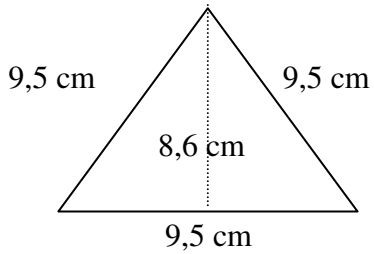

E' un triangolo ……

Base = _____ cm

Altezza = _____ cm

Lato obliquo = _____ cm

Lato obliquo = _____cm

Calcola il perimetro del triangolo:

Calcola l'area del triangolo:

E' un triangolo ……

Base = _____ cm

Altezza = _____ cm

Lato = _____ cm

Calcola il perimetro del triangolo:

Calcola l'area del triangolo:

- **Osserva questa figura**

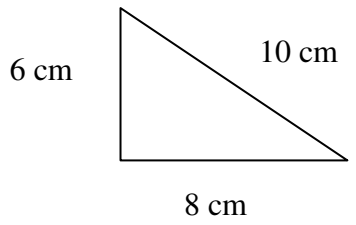

E' un triangolo ……

Base = _____ cm

Altezza = _____ cm

Lato obliquo = _____ cm

Calcola il perimetro del triangolo:

Calcola l'area del triangolo: