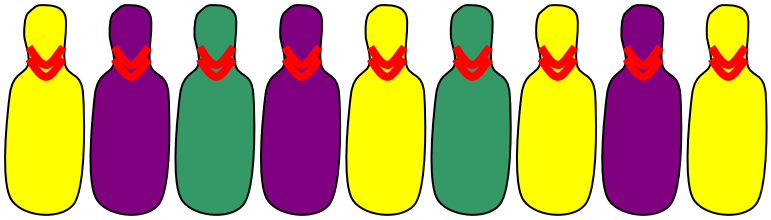

Esprimi in frazione la probabilità di colpire:

un birillo verde → $\frac{\dots\dots}{\dots\dots}$

un birillo viola → $\frac{\dots\dots}{\dots\dots}$

un birillo giallo → $\frac{\dots\dots}{\dots\dots}$

Ogni bambino ha una scatola con alcune palline. Decidono di fare una gara: vincerà chi estrae per primo una pallina verde. Esprimi in frazione la probabilità per ogni bambino di estrarre una pallina verde.

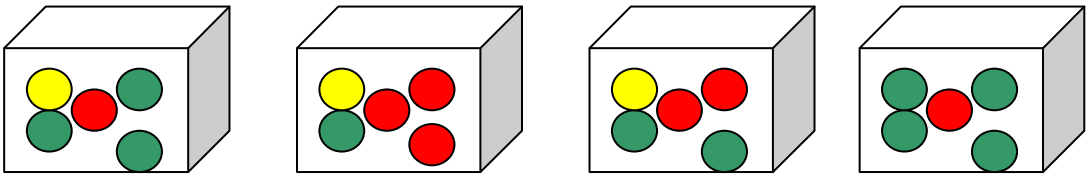

| Agnese | Jacopo | Davide | Beatrice |
|---|---|---|---|
| $\frac{\dots\dots}{\dots\dots}$ | $\frac{\dots\dots}{\dots\dots}$ | $\frac{\dots\dots}{\dots\dots}$ | $\frac{\dots\dots}{\dots\dots}$ |

Se estrai una carta a caso da un mazzo come il seguente, calcola in percentuale la probabilità di estrarre:



il 5 di fiori $\frac{\dots\dots}{\dots\dots}$ = …….. %

una carta di cuori $\frac{\dots\dots}{\dots\dots}$ = …….. %

una carta di valore superiore al 7 $\frac{\dots\dots}{\dots\dots}$ = …….. %

una carta di valore dispari $\frac{\dots\dots}{\dots\dots}$ = …….. %