Cerchi su cerchi

Per ogni cerchio traccia e colora:

tre corde

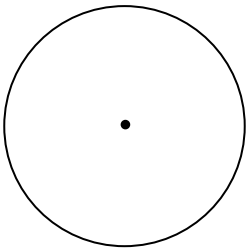

due archi

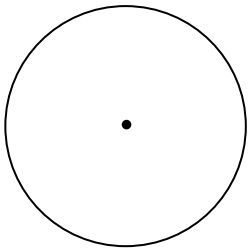

un segmento circolare

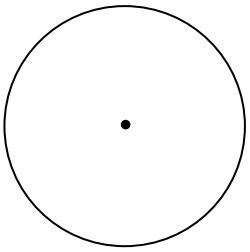

un settore circolare

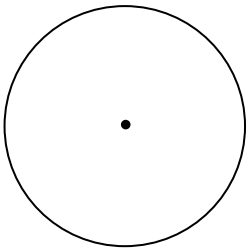

Colora le parti indicate e rispondi

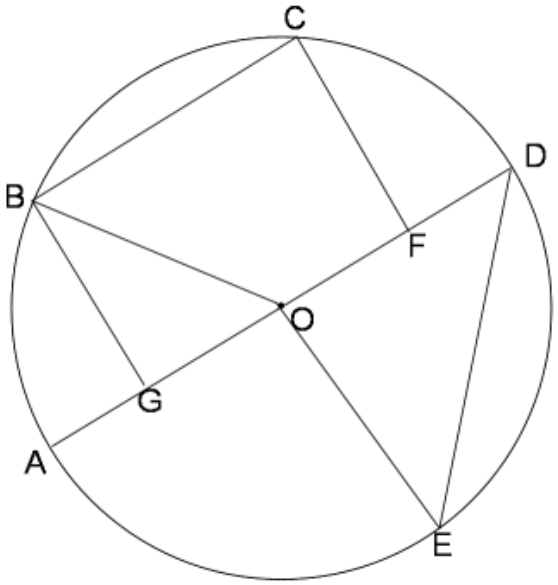

Colora di giallo tutti i raggi che vedi nella figura.

Quanti raggi vedi nella figura? ……

Quali sono: ……

Colora di rosso tutte le corde che vedi nella figura.

Quante corde vedi nella figura? ……

Quali sono: ……

Colora di verde tutti i diametri che vedi nella figura.

Quanti diametri vedi nella figura? ……

Quali sono: ……

Colora di blu tutti gli archi che vedi nella figura.

Quanti archi vedi nella figura? ……

Quali sono: ……