D1. Sara nel portafoglio ha questi soldi.

Quanti euro ha Sara nel portafoglio?

A. ☐ 421 euro

B. ☐ 142 euro

C. ☐ 124 euro

D2. Luca ha usato 2 pezzi delle sue costruzioni per costruire questa casetta.

Quali fra questi pezzi ha usato Luca?

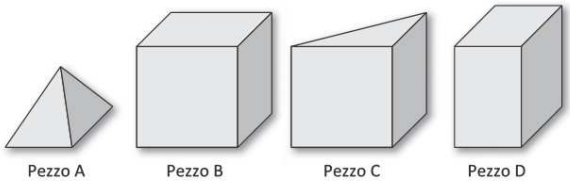

Risposta: il pezzo ..... e il pezzo .....

D3. Questo grafico rappresenta il numero di figurine che Mario, Luca, Paola e Sara hanno in tasca.

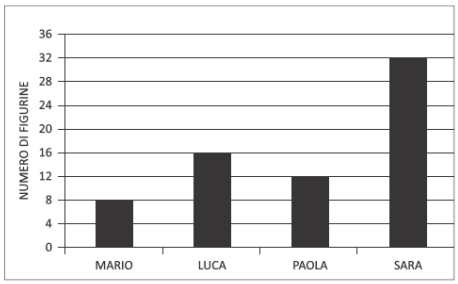

Osserva il grafico e rispondi.

a. Luca ha il doppio delle figurine di Mario? ☐ Sì ☐No ☐Non si può sapere

b. Luca ha solo una figurina in più di Paola? ☐ Sì ☐No ☐Non si può sapere

c. Sara ha più anni di Luca? ☐ Sì ☐No ☐Non si può sapere

D4. Giorgio ha in tutto 15 biglie nelle due mani. Nella mano aperta ha 7 biglie.

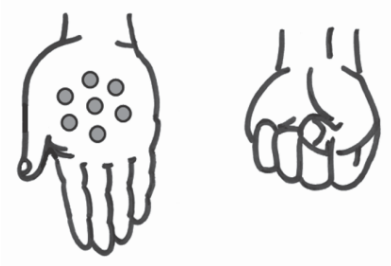

Ci sono più biglie nella mano chiusa o nella mano aperta?

A. ☐ Nella mano aperta

B. ☐ Nella mano chiusa

C. ☐ Non si può sapere

D5. Un muratore deve comporre con delle piastrelle la decorazione di un pavimento come quella in figura.

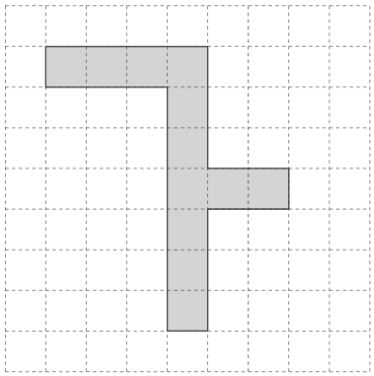

Sceglie piastrelle come questa:

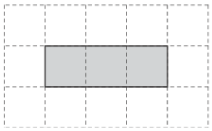

Le piastrelle non devono sovrapporsi. Quante piastrelle intere deve usare il muratore?
Risposta: ..... piastrelle

D6. nella classe di Carla gli alunni hanno fatto un'indagine sugli sport praticati. Hanno costruito il seguente grafico.

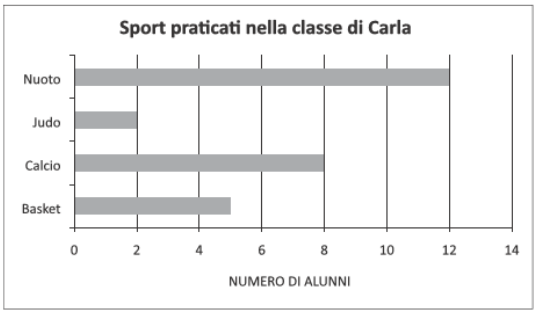

La tabella qui sotto riporta i dati del grafico ma non è completa. **Scrivi tu al posto dei puntini quello che manca.**

Sport	.....	Calcio	.....	.....
Numero alunni	5	.....	2	12

D7. Chiara usa il righello per misurare la lunghezza della sua penna.



Quanto misura la penna di Chiara?
Risposta: circa ..... cm

D8. Gaia ha iniziato a costruire un cubo con cannucce e palline di pongo.

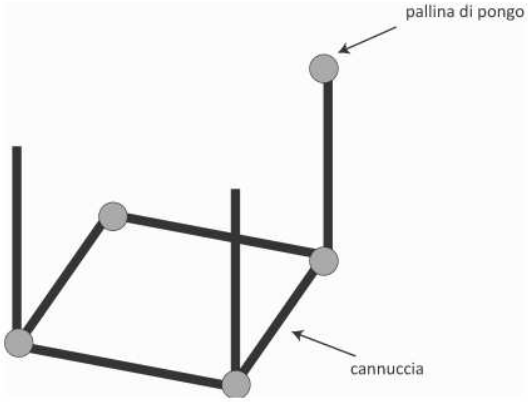

Per completare il cubo:
a. Gaia deve ancora usare ……. palline di pongo
b. Gaia deve ancora usare ……. cannucce

D9. Osserva lo schema.

La freccia ⟶ significa: È PIÙ ALTA DI...

Ora scrivi il nome delle bambine nelle caselle.

D10. Pietro deve apparecchiare la tavola. Per ogni piatto servono 3 posate.



Completa.
a. Per 3 piatti servono ..... posate
b. Per ..... piatti servono 15 posate

D11. a. Il passo della formica è di un quadretto.

La formica ha già fatto tre passi.

Quanti passi deve **ancora** fare la formica per arrivare al la bandierina?
Risposta: ..... passi

b. Il passo della rana invece è di due quadretti

Anche la rana ha già fatto due passi dei suoi.

Quanti passi dei suoi deve ancora fare la rana per arrivare alla bandierina?
Risposta: ..... passi

D12. Da un foglio quadrato è stato tagliato via un pezzo. Ora il foglio ha questa forma.

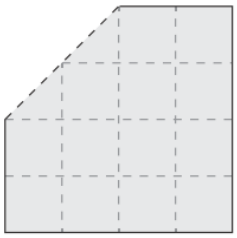

Quale pezzo è stato tagliato?

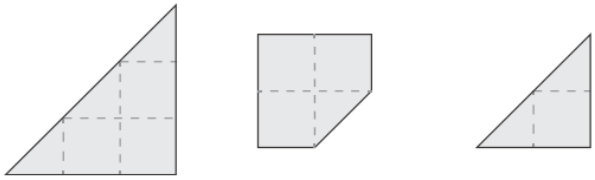

A. ☐ B. ☐ C. ☐

D13. Anna e Bea giocano a scambiarsi le figurine. Una figurina del panda vale come due figurine del cane.

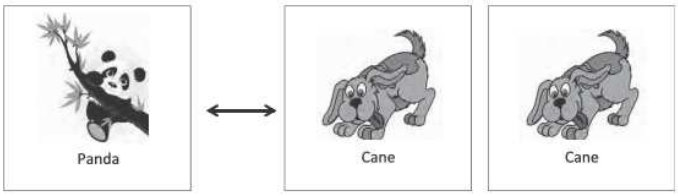

Completa la frase con il numero corretto.
Anna dà a Bea 8 figurine del cane. Bea deve dare in cambio ad Anna ..... figurine del panda.

D14. Quale numero corrisponde a 3 unità, 5 decine e 2 centinaia?
A. ☐ 253
B. ☐ 532
C. ☐ 352

D15. Quali delle seguenti uguaglianze è corretta?

A. ☐ 41 = 52 –9

B. ☐ 41 = 50 –9

C. ☐ 41 = 31 + 11

D16. Osserva queste operazioni. Solo due danno lo stesso risultato. **Collegale con una linea.**

6×6	$6 + 6 + 6 + 6 + 6$
$15 + 15$	$15 + 1 + 5$

D17. Osserva questa retta dei numeri.

a. Quale numero si trova nel posto indicato dal triangolino?

A. ☐ 4

B. ☐ 50

C. ☐ 40

b. Metti il numero 70 al posto giusto sulla retta dei numeri.

D18. Andrea deve riempire la tabella qui sotto con questi sei numeri:

8 13 27 52 79 84

Andrea ha già scritto tre numeri. **Scrivi tu gli altri tre al posto giusto.**

	NUMERI PARI	NUMERI DISPARI
NUMERI MINORI DI 50		27
NUMERI MAGGIORI DI 50	84 52	

D19. Osserva.

a. Sotto il ▲ c'è il numero .....

b. Sotto il ● c'è il numero .....

D20. Un bambino ha lasciato delle impronte con il palmo della mano su un cartellone.
Che mano ha usato?



A. ☐ Solo la mano sinistra

B. ☐ Solo la mano destra

C. ☐ Entrambe le mani

D21. Osserva questa forma.

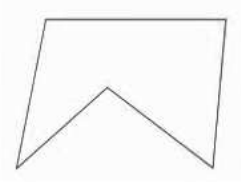

Dove si trova la forma in questo disegno?
Trovala e segnala con una crocetta (X).

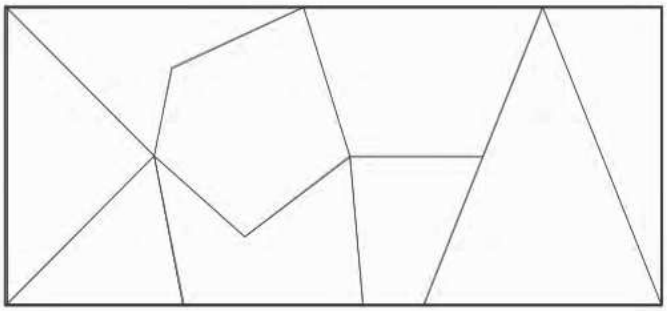

D22. Monica vuole fare dei braccialetti come questo.



Ha 8 cuoricini e 9 perline.

Quanti braccialetti può fare Monica?

A. ☐ 3
B. ☐ 4
C. ☐ 7

D23. Osserva la figura.



Questa figura è formata da

A. ☐ un cerchio, due triangoli e un quadrato
B. ☐ un cerchio, due quadrati e un triangolo
C. ☐ un cerchio, due triangoli e un rettangolo