D1. Luca vuole comprare una scrivania che costa CENTOCINQUE euro.

Quale cartellino mostra il prezzo della scrivania?

€ 150	€ 105	€ 1005
Cartellino 1	Cartellino 2	Cartellino 3

A. ☐ Il cartellino 1

B. ☐ Il cartellino 2

C. ☐ Il cartellino 3

D2. Marco ha realizzato questa costruzione.



Come si presenta la costruzione vista dall'alto?

A. ☐ 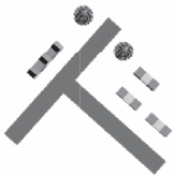

B. ☐ 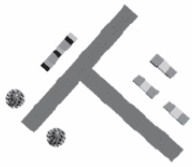

C. ☐

D3. Osserva questa sequenza di numeri.

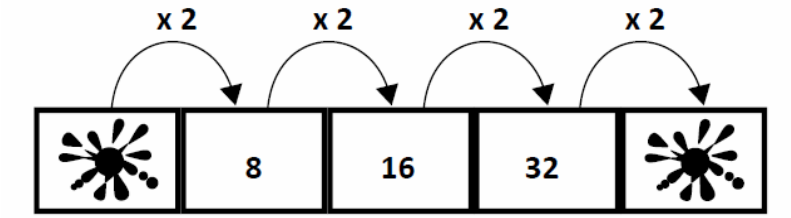

Quali numeri sono coperti dalle macchie?
a. Primo numero: ……..
b. Ultimo numero: ……..

D4. I bambini di una classe seconda hanno fatto un'indagine sugli animali che hanno a casa. Hanno raccolto i dati in una tabella, poi hanno disegnato un grafico. Osserva la tabella.

I nostri animali

CANI	CONIGLI	GATTI	PESCI
6	2	7	8

a. Osserva ora il grafico: come vedi non è completo.
Scrivi al posto dei puntini gli animali che mancano.

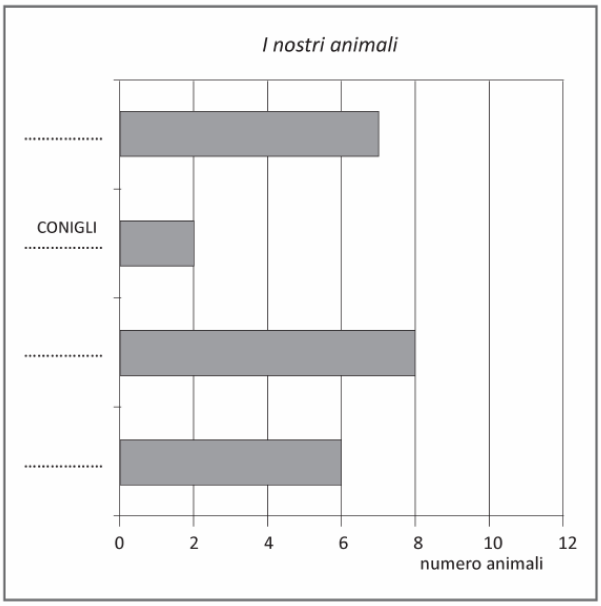

b. Quanti animali hanno in tutto i bambini della classe?
Risposta: ……..

D5. Quale figura corrisponde alla seguente descrizione?
"C'È UN QUADRATO DENTRO A UN RETTANGOLO"

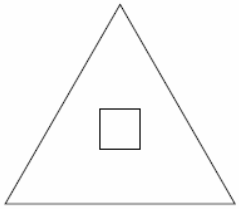

Figura 1

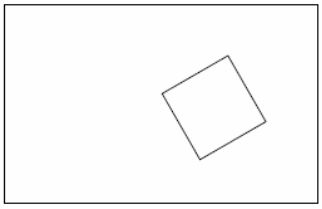

Figura 2

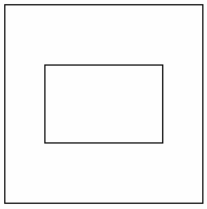

Figura 3

A. ☐ Figura 1
B. ☐ Figura 2
C. ☐ Figura 3

D6. I 20 alunni di una classe vogliono preparare una macedonia di fragole e banane per tutta la classe. Decidono di usare:

	1 banana ogni 4 alunni
	3 fragole per ogni alunno

a. Quante banane dovranno usare in tutto per la macedonia?

A. ☐ 4

B. ☐ 5

C. ☐ 6

b. Quante fragole dovranno usare in tutto per la macedonia?

Risposta: ..... fragole

D7.

a. Completa la figura B in modo da farla diventare uguale alla figura A.

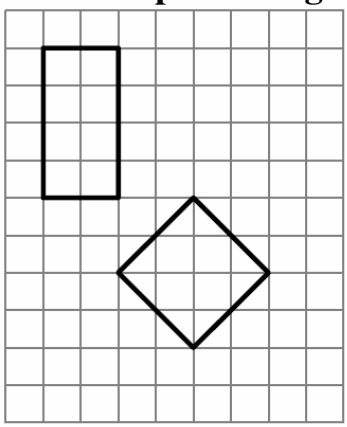

Figura A

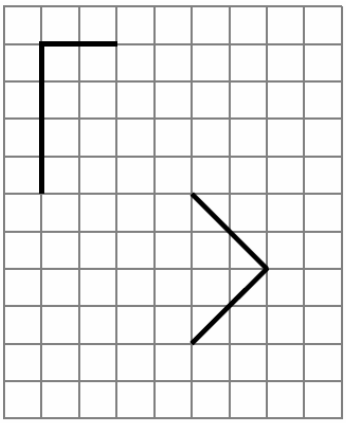

Figura B

b. Completa la figura B in modo da farla diventare uguale alla figura A.

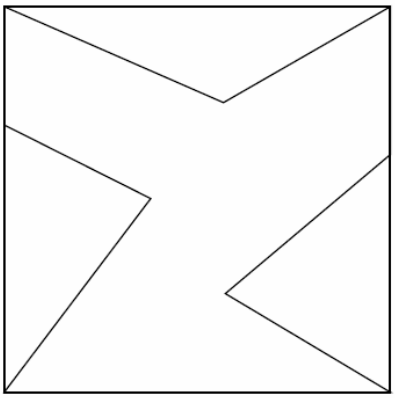

Figura A

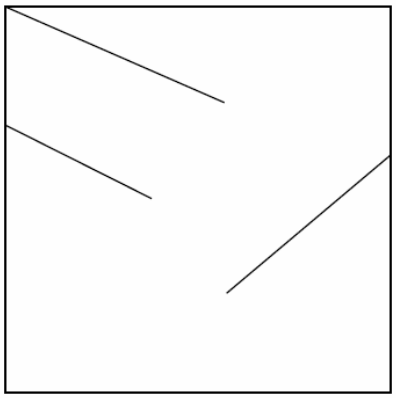

Figura B

D8. I 21 alunni di una classe fanno un'indagine sul tipo di dolce che ognuno di loro preferisce e rappresentano le risposte nel grafico che vedi.

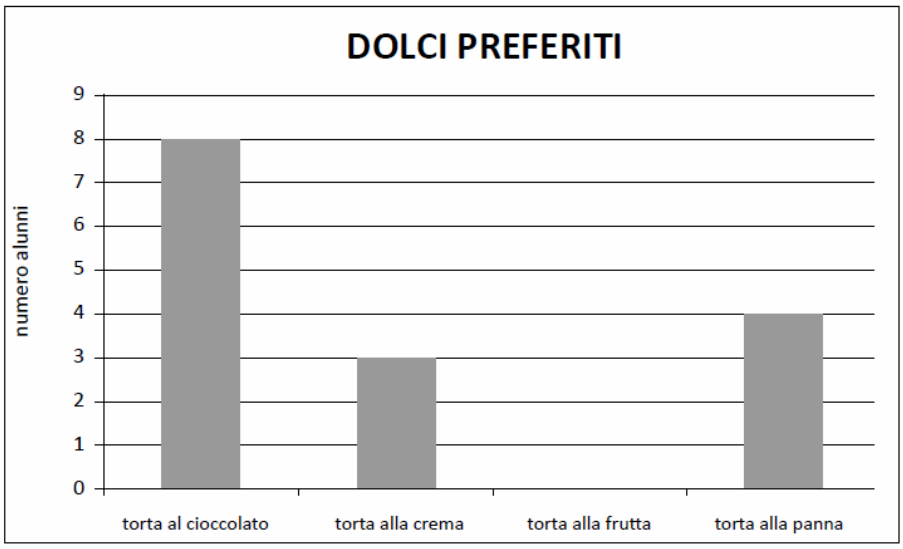

a. Quanti alunni preferiscono la torta al cioccolato?
Risposta: ……

c. **Il grafico non è completo perché manca la colonna della torta alla frutta. Disegnala tu.**

D9. Tre bambini misurano la stessa matita.

Fabio misura così e dice: "La matita è lunga 16 centimetri".

Mattia misura così e dice: "La matita è lunga 15 centimetri".

Riccardo misura così e dice: "La matita è lunga 14 centimetri".

Chi ha misurato in modo corretto la lunghezza?

A. ☐ Fabio

B. ☐ Mattia

C. ☐ Riccardo

D10. Luca fotografa una costruzione.

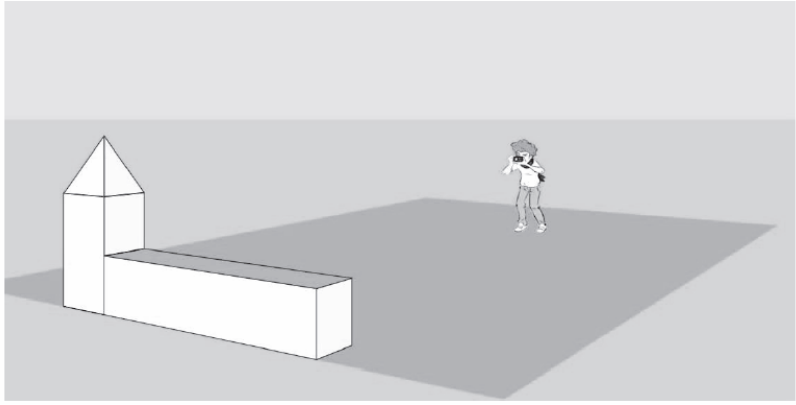

Qual è la foto scattata da Luca?

A. ☐ 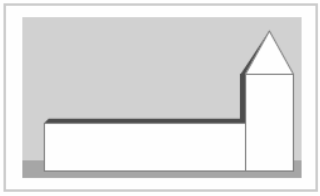

B. ☐ 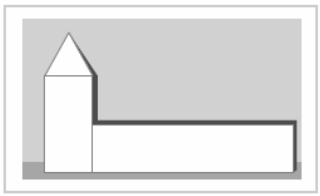

C. ☐ 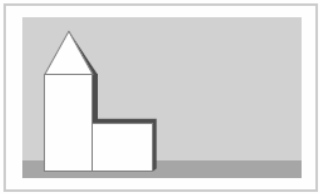

D11. Cosa nasconde la macchia?

10 + 1✳ = 23 La macchia nasconde la cifra ...3...

Adesso scopri tu le cifre nascoste sotto le macchie e scrivile al posto dei puntini.

a. 20 + ✳5 = 35 La macchia nasconde la cifra .....

b. 48 - ✳6 = 12 La macchia nasconde la cifra .....

c. 42 + 1✳ = 59 La macchia nasconde la cifra .....

D12. Su questa linea sono stati già scritti alcuni numeri.

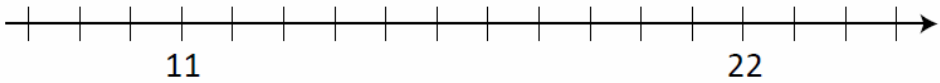

Scrivi sulla linea al posto giusto i numeri 9, 16 e 25.

D13. Marco ha fatto questa figura con un filo di ferro.

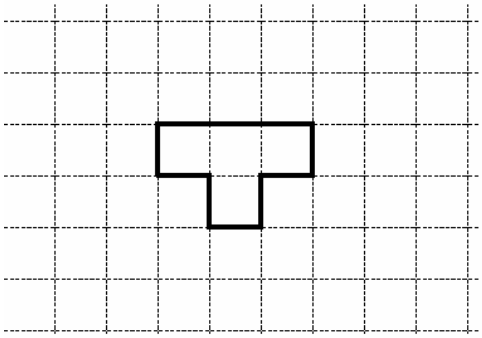

Quale di questi tre fili ha usato Marco?

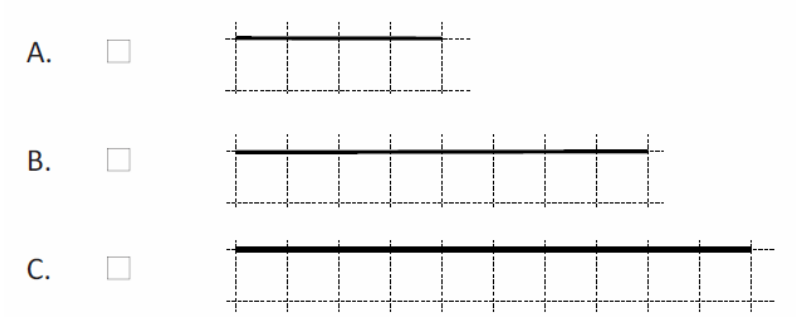

D14. Monica e Lorenzo vogliono andare al cinema. Il costo di un biglietto è di 7 euro.

a. Quanto costano 2 biglietti?

Risposta: …… euro

b. Monica ha 8 euro e Lorenzo ha 6 euro. Mettono insieme i soldi e comprano i due biglietti. Poi si mettono a discutere…

Chi ha ragione?

A. ☐ Lorenzo

B. ☐ Monica

C. ☐ Nessuno dei due

D15. Osserva i seguenti numeri:

16 8 22 24

Tre di questi numeri completano correttamente la frase che segue. Scrivili al posto dei puntini.

In una classe seconda ci sono …… alunni: i maschi sono …… e le femmine il doppio, cioè ……

D16. Questo è il Tangram, un gioco cinese formato da sette pezzi.

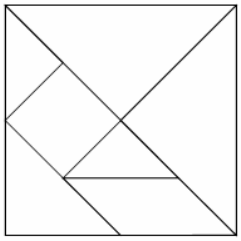

a. **Con i pezzi del Tangram, Giorgio ha costruito questo coniglietto, ma non ha usato uno dei pezzi.**

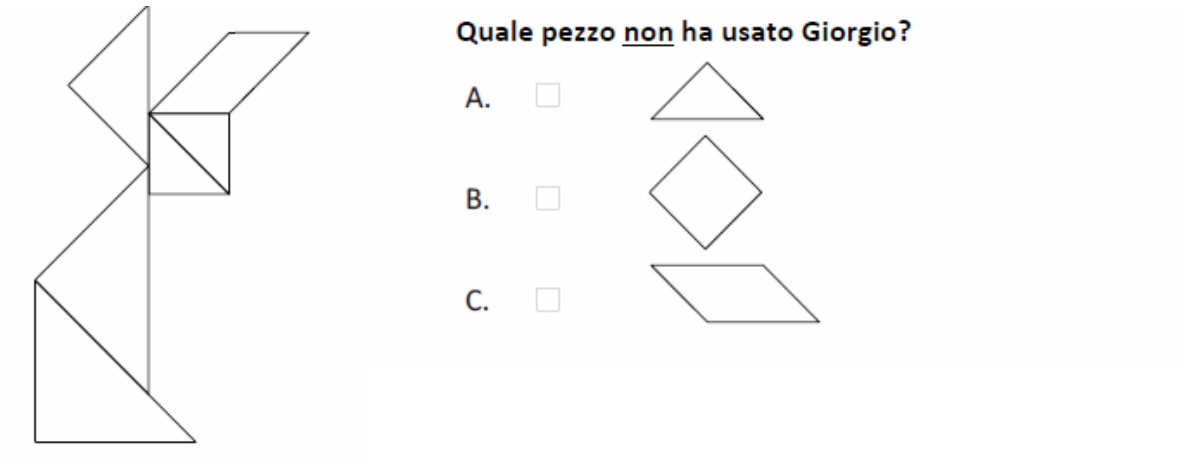

b. **Maria e Antonio devono costruire questa figura.**

Possono usare solo due pezzi del Tangram, senza sovrapporli.

Maria sceglie questi pezzi:

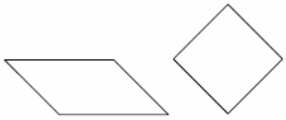

Antonio sceglie questi pezzi:

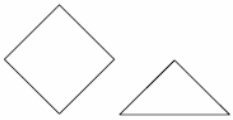

Chi riuscirà con i suoi pezzi a costruire la figura?

A. ☐ Solo Maria

B. ☐ Tutti e due

C. ☐ Solo Antonio

D17. La maestra chiede di sommare 3 decine e 14 unità. Con quale operazione puoi rispondere alla maestra?

A. ☐ 3 + 14

B. ☐ 30 + 14

C. ☐ 3 + 10 + 14

D18. Un alunno ha scritto alla lavagna:



Alcuni compagni dicono:



Chi ha ragione?

A. ☐ Lucia

B. ☐ Gabriele

C. ☐ Nicola

D19. Osserva attentamente la posizione dei bambini.



Indica se quello che dicono i bambini è vero o falso.

		Vero	Falso
a.	Mara dice: “Anna e Luca sono alla mia sinistra”	☐	☐
b.	Luca dice: “Anna è alla mia sinistra e Mara alla mia destra”	☐	☐
c.	Anna dice: “Luca e Mara sono alla mia sinistra”	☐	☐

D20. Alle nove del mattino un termometro segnava:



Alle dodici lo stesso termometro segna:

Di quanti gradi è aumentata la temperatura?

A. ☐ 4 gradi

B. ☐ 8 gradi

C. ☐ 26 gradi